Exercice 1

Le principe est le suivant : l'extrémité de chaque flèche indique la somme de la ligne ou de la colonne correspondante. Compléter, sachant que x représente un nombre quelconque et que le contenu des deux cases grises doit être le même.

$4\,x+9$	$6\,x+9$	$-3\,x-8$	$9\,x+5$	
$-5\,x-9$	$-7\,x-6$	$-6\,x-10$	$-4\,x+4$	

Exercice 2

Le principe est le suivant : l'extrémité de chaque flèche indique la somme de la ligne ou de la colonne correspondante. Compléter, sachant que x représente un nombre quelconque et que le contenu des deux cases grises doit être le même.

$5\,x+5$	$-9\,x-5$	$8\,x-6$	$-3\,x-10$	
$-x-7$	$-3\,x-7$	$-6\,x+3$	$10\,x+10$	

Exercice 3

Le principe est le suivant : l'extrémité de chaque flèche indique la somme de la ligne ou de la colonne correspondante. Compléter, sachant que x représente un nombre quelconque et que le contenu des deux cases grises doit être le même.

$7\,x+5$	$9\,x-4$	$-3\,x-2$	$-7\,x-1$	
$-10\,x-8$	$-4\,x+9$	$-6\,x-5$	$10\,x-5$	

Exercice 4

Le principe est le suivant : l'extrémité de chaque flèche indique la somme de la ligne ou de la colonne correspondante. Compléter, sachant que x représente un nombre quelconque et que le contenu des deux cases grises doit être le même.

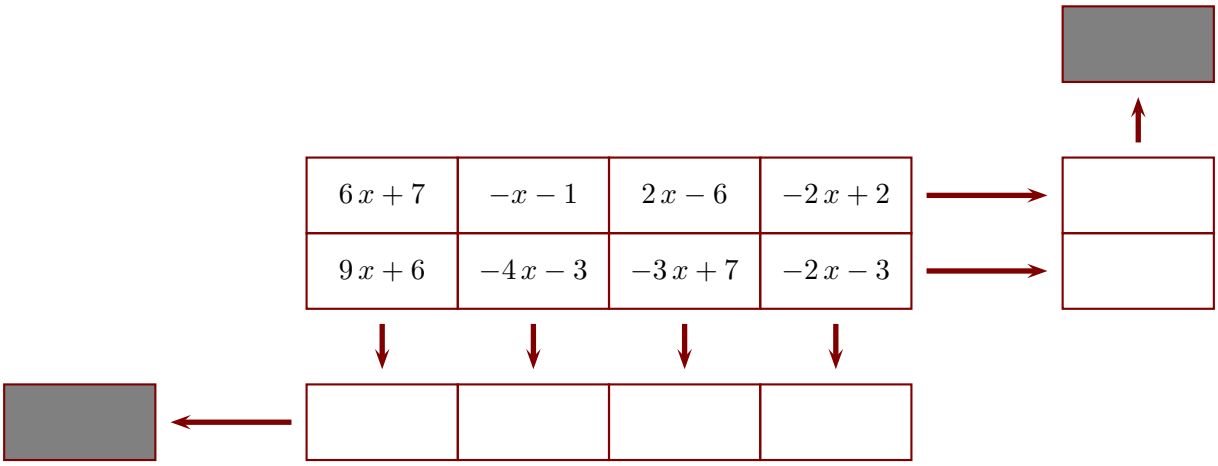

Exercice 5

Le principe est le suivant : l'extrémité de chaque flèche indique la somme de la ligne ou de la colonne correspondante. Compléter, sachant que x représente un nombre quelconque et que le contenu des deux cases grises doit être le même.

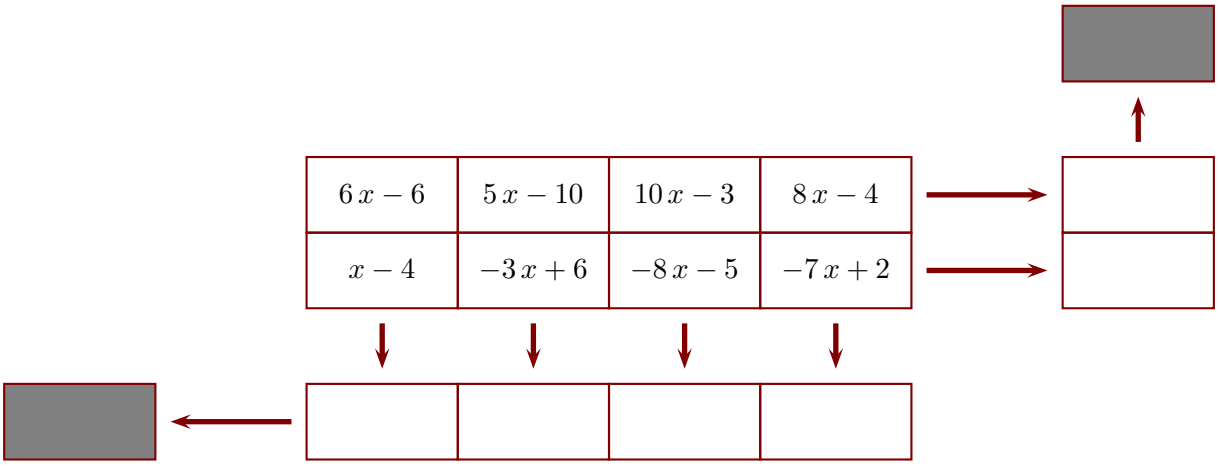

Exercice 6
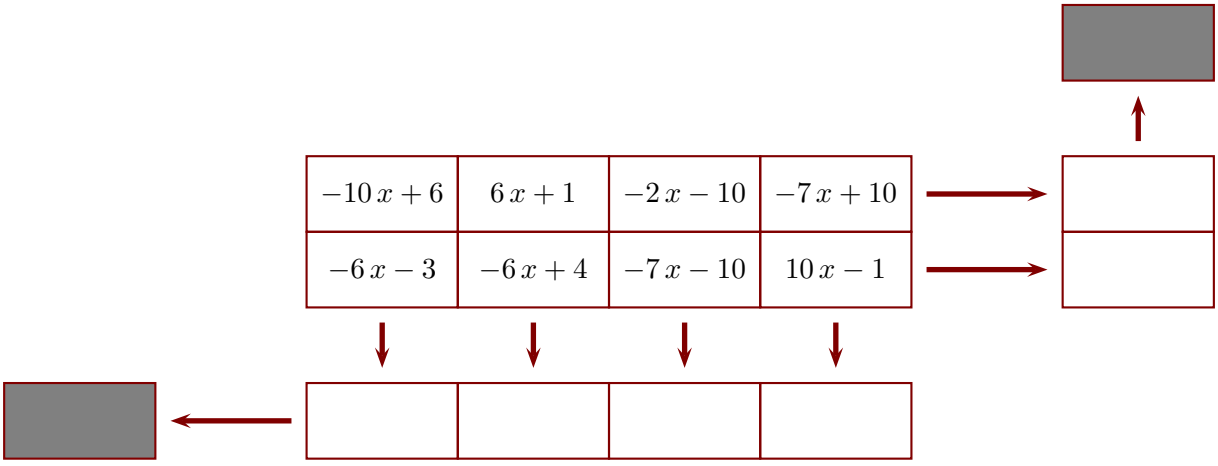
Le principe est le suivant : l'extrémité de chaque flèche indique la somme de la ligne ou de la colonne correspondante. Compléter, sachant que x représente un nombre quelconque et que le contenu des deux cases grises doit être le même.