Exercice 1

Le principe est le suivant : l'extrémité de chaque flèche indique la somme de la ligne ou de la colonne correspondante. Compléter, sachant que x représente un nombre quelconque et que le contenu des deux cases grises doit être le même.

$-2\,x+10$	$4\,x+5$	$2\,x-9$	$-10\,x+6$	
$7\,x+1$	$-8\,x-4$	$-10\,x+1$	$9\,x+1$	

Exercice 2

Le principe est le suivant : l'extrémité de chaque flèche indique la somme de la ligne ou de la colonne correspondante. Compléter, sachant que x représente un nombre quelconque et que le contenu des deux cases grises doit être le même.

$4\,x+4$	$6\,x-9$	$-3\,x+4$	$-6\,x-8$	
$4\,x-8$	$2\,x+2$	$-x+3$	$8\,x-8$	

Exercice 3

Le principe est le suivant : l'extrémité de chaque flèche indique la somme de la ligne ou de la colonne correspondante. Compléter, sachant que x représente un nombre quelconque et que le contenu des deux cases grises doit être le même.

$-7\,x-6$	$9\,x-1$	$9\,x+5$	$-x-4$	
$-4\,x+5$	$8\,x-2$	$x+9$	$-5\,x-5$	

Exercice 4

Le principe est le suivant : l'extrémité de chaque flèche indique la somme de la ligne ou de la colonne correspondante. Compléter, sachant que x représente un nombre quelconque et que le contenu des deux cases grises doit être le même.

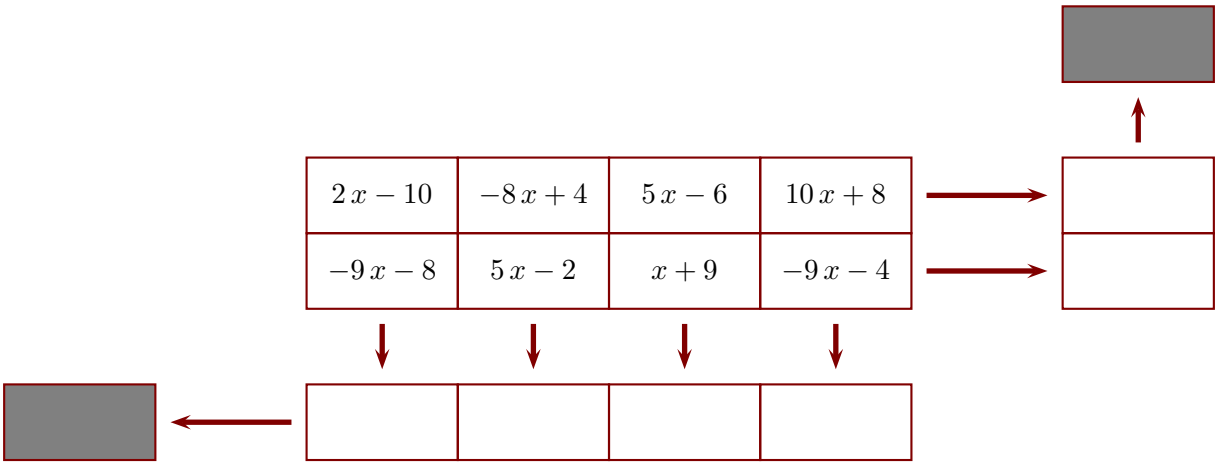

Exercice 5

Le principe est le suivant : l'extrémité de chaque flèche indique la somme de la ligne ou de la colonne correspondante. Compléter, sachant que x représente un nombre quelconque et que le contenu des deux cases grises doit être le même.

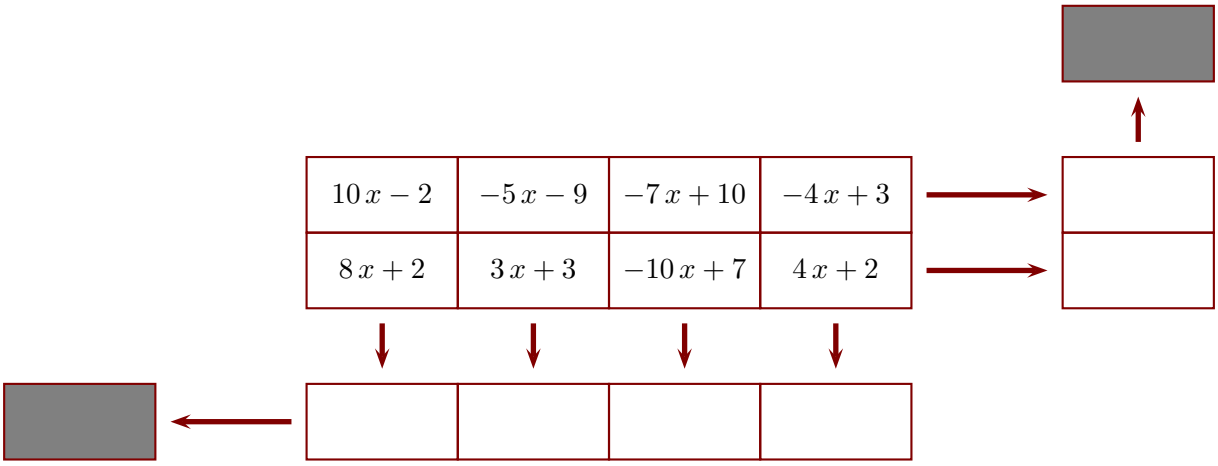

Exercice 6
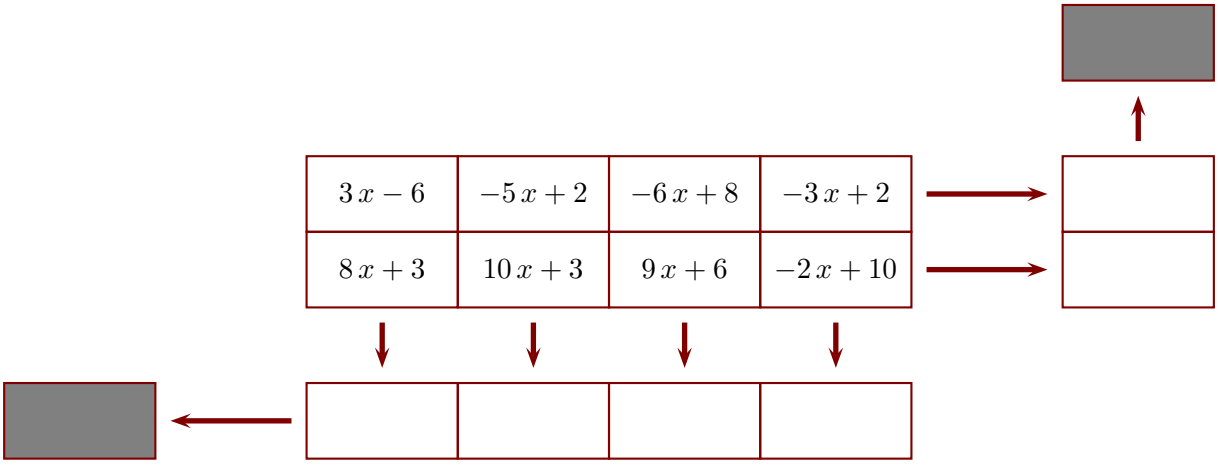
Le principe est le suivant : l'extrémité de chaque flèche indique la somme de la ligne ou de la colonne correspondante. Compléter, sachant que x représente un nombre quelconque et que le contenu des deux cases grises doit être le même.