Exercice 1

Le principe est le suivant : l'extrémité de chaque flèche indique la somme de la ligne ou de la colonne correspondante. Compléter, sachant que x représente un nombre quelconque et que le contenu des deux cases grises doit être le même.

$10\,x-8$	$4\,x-6$	$-7\,x+4$	$-5\,x+7$	
$8\,x-9$	$-6\,x+6$	$-2\,x-10$	$2\,x-7$	

Exercice 2

Le principe est le suivant : l'extrémité de chaque flèche indique la somme de la ligne ou de la colonne correspondante. Compléter, sachant que x représente un nombre quelconque et que le contenu des deux cases grises doit être le même.

$-10\,x+3$	$3\,x-7$	$-8\,x+9$	$9\,x+4$	
$-5\,x+5$	$-5\,x+3$	$-3\,x-10$	$2\,x+3$	

Exercice 3

Le principe est le suivant : l'extrémité de chaque flèche indique la somme de la ligne ou de la colonne correspondante. Compléter, sachant que x représente un nombre quelconque et que le contenu des deux cases grises doit être le même.

$2\,x+10$	$3\,x-6$	$-7\,x-10$	$-x-5$	
$-3\,x-5$	$10\,x-3$	$-5\,x-1$	$-9\,x+9$	

Exercice 4

Le principe est le suivant : l'extrémité de chaque flèche indique la somme de la ligne ou de la colonne correspondante. Compléter, sachant que x représente un nombre quelconque et que le contenu des deux cases grises doit être le même.

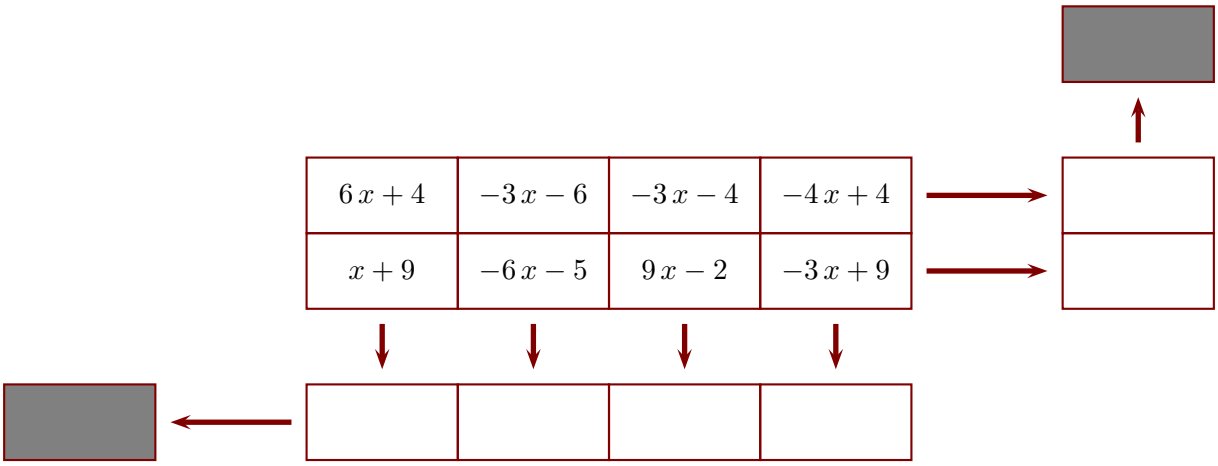

Exercice 5

Le principe est le suivant : l'extrémité de chaque flèche indique la somme de la ligne ou de la colonne correspondante. Compléter, sachant que x représente un nombre quelconque et que le contenu des deux cases grises doit être le même.

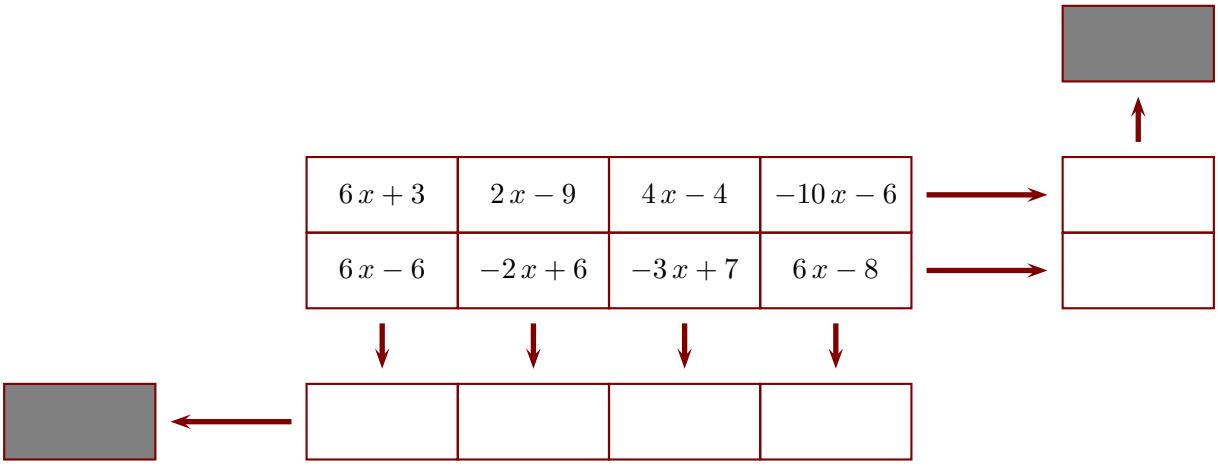

Exercice 6
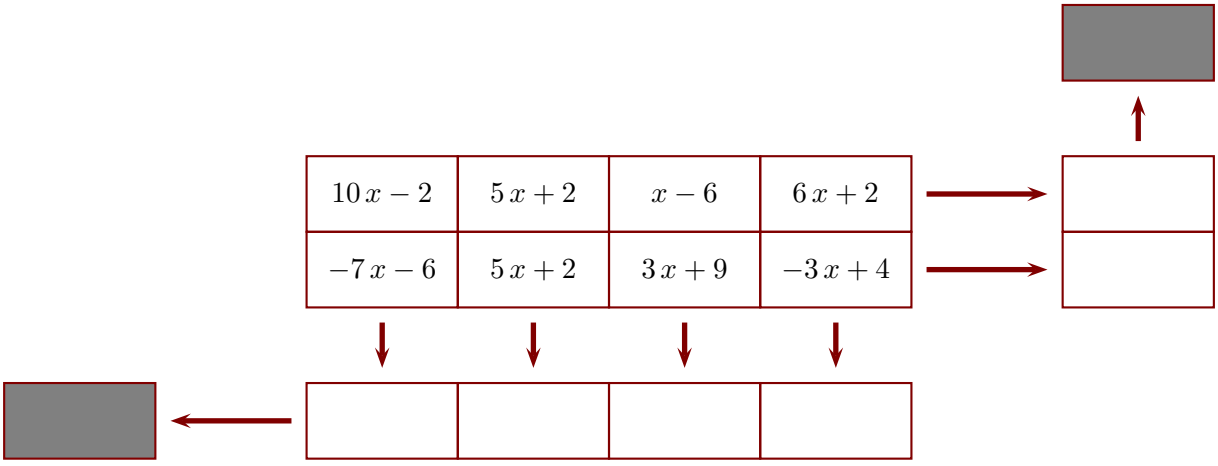
Le principe est le suivant : l'extrémité de chaque flèche indique la somme de la ligne ou de la colonne correspondante. Compléter, sachant que x représente un nombre quelconque et que le contenu des deux cases grises doit être le même.